ایران عرضه
فروشگاه کالاهای دانلودی
IRANARZE.IR



IranArze.ir
@iranarze
@iranarze

کد محصول
ES576

آخرین بروزرسانی
۲۸ اردیبهشت ۱۴۰۴

سوالات استخدامی

بانک تجارت

- مطابق با منابع اعلام شده آزمون استخدامی ۱۴۰۳
- نسخه رایگان شامل ۲۴۶ سوال (تعداد کمتر و تنها برخی دارای پاسخ)
- برای تهیه نسخه اصلی، با ۱۲۵۳ سوال به همراه پاسخنامه تستی و تشریحی، به سایت ایران عرضه مراجعه نمایید.

انتشار یا استفاده غیر تجاری از این جزوه، بدون حذف لوگوی ایران عرضه "مجاز" می باشد
IRANARZE.IR

لینک های مفید آزمون استخدامی بانک تجارت

خرید این محصول	**خرید سوالات عمومی بانک ها**
خرید سوالات استخدامی ۱۰ سال اخیر	**خرید درسنامه دروس عمومی**
منابع آزمون	**خرید سوالات شب آزمون**
اخبار آزمون	**شبکه های اجتماعی ایران عرضه** (فایل های رایگان + تخفیفات هفتگی + اخبار)

(برای مشاهده هر بخش روی آن بزنید)

آخرین بروزرسانی ها:

۱۴۰۴/۰۲/۲۸ سوالات موجود آپدیت شد.

فهرست مطالب

- **فصل اول: سوالات استخدامی معارف اسلامی - صفحه ۴ (۱۳ سوال)**
- **فصل دوم: سوالات استخدامی ادبیات و نگارش اداری - صفحه ۶**
  - بخش اول: سوالات استخدامی ادبیات فارسی (۱۳ سوال)
  - بخش دوم: سوالات استخدامی آیین نگارش و مکاتبات اداری (۱۳ سوال)
- **فصل سوم: سوالات استخدامی زبان انگلیسی عمومی - صفحه ۱۰ (۱۳ سوال)**
- **فصل چهارم: سوالات استخدامی هوش و استعداد تحصیلی (GMAT) - صفحه ۱۲**
  - بخش اول: سوالات استخدامی هوش و استعداد تحصیلی (۱۳ سوال)
  - بخش دوم: سوالات استخدامی جی مت (GMAT) (۱۳ سوال)
- **فصل پنجم: سوالات استخدامی مهارت های هفتگانه ICDL - صفحه ۱۷ (۱۳ سوال)**
- **فصل ششم: سوالات استخدامی اطلاعات و هوش محیطی - صفحه ۱۹**
  - بخش اول: سوالات استخدامی اطلاعات عمومی(۱۳ سوال)
  - بخش دوم: سوالات استخدامی دانش علوم بانکی (۱۳ سوال)
  - بخش سوم: سوالات استخدامی آشنایی با بانک تجارت (۱۳ سوال)
- **فصل هفتم: سوالات عمومی آزمون استخدامی بانک تجارت ۱۴۰۰ - صفحه ۲۷ (۳۲ سوال)**

زبان انگلیسی عمومی- اطلاعات عمومی، دانش اجتماعی و قانون اساسی- فناوری اطلاعات و مهارت های هفتگانه ICDL

- **فصل هشتم: اصل سوالات عمومی آزمون استخدامی بانک تجارت آبان ۱۴۰۲ - صفحه ۳۲ (۲۱ سوال)**

معارف اسلامی- ادبیات و نگارش اداری

- **فصل نهم: اصل سوالات عمومی آزمون استخدامی بانک تجارت مهر ۱۴۰۲ - صفحه ۳۵ (۶۳ سوال)**

زبان انگلیسی - اطلاعات و هوش محیطی - مهارت های ICDL - هوش - معارف اسلامی - ادبیات و نگارش اداری

در هر بخش، تنها ۲ سوال ابتدایی دارای پاسخنامه تشریحی می باشد. در صورت تمایل به دریافت سوالات بیشتر با جواب تشریحی می توانید این محصول را از سایت ایران عرضه خریداری نمایید.

خرید محصول

❖ فصل اول: سوالات معارف اسلامی

۱- در آیه کریمه (کل شی ء هالک الا وجهه) مقصود مفسران از وجه الله کدام است؟

۱) وجود الهی ۲) ذات الهی ۳) بقا و ابدیت ٤) فنا ناپذیری

☑ **پاسخ سایت ایران عرضه: گزینه ۲** ⇦در ارتباط با آیه ۸۸ سوره قصص تفاسیر مختلفی وجود دارد که اولین مورد از آنها به این اشاره دارد که خدا جسم نیست و مانند انسانها چهره و صورت ندارد و از آنجا که در زبان عربی واژه «وجه الشئ» در معنی «ذات الشئ» به کار می رود، در بسیاری از آیات قرآن، «وجه الله» به معنای ذات خدا خواهد بود. در تفسیری دیگر نیز گفته شده است که مراد از «وجه»، هر چیزی است که به نوعی منسوب به خداست، از اسماء و صفات تا ادیان و اعمال صالح بندگان و همچنین مقربین درگاه او، از انبیاء، ملائکه، شهدا و مؤمنینی که مشمول مغفرتش شده باشند، همه وجه خدایند.

۲- یکی از اسامی قیامت یوم الازفه به چه معناست؟ (منبع ایران عرضه)

۱) بسیار نزدیک ۲) جدایی حق از باطل

۳) جمع شدن ٤) خارج شدن از قبور

☑ **پاسخ سایت ایران عرضه: گزینه ۱** ⇦ واژه الازفه به معنی تنگی وقت است و نشان دهنده نزدیک شدن موعد مقرر میباشد، نامگذاری قیامت به این نام، در دو آیه از قرآن کریم آمده است (۵۷ سوره نجم و ۱۸ سوره غافر) و تعبیری است گویا و بیدار کننده از قیامت. حال آنکه عبارت یوم الازفه که معنی آن روز نزدیک میباشد تنها در آیه ۱۸ سوره غافر آمده و بیانگر این واقعیت است که قیامت بیش از آنچه مردم فکر میکنند نزدیک است.

۳- کدام گزینه صحیح است؟

۱) ذات الهی قابل شناخت است.

۲) صفات و اوصاف الهی شناخت ناپذیرند.

۳) خداشناسی از رهگذر اوصاف و افعال الهی برای انسان میسر است.

٤) آدمی از هر گونه معرفتی نسبت به خدا محروم است.

٤- از ذکر "لاحول و لا قوه الا بالله" کدام توحید فهمیده میشود؟ (تنظیم توسط فروشگاه ایران عرضه)

۱) توحید افعالی ۲) توحید عبادی

۳) توحید در خالقیت ٤) توحید ربوبی

۵- سرشت فرشتگان کدام است؟

۱) رسالت تکوینی ۲) جسم لطیف روحی

۳) گوهر سبحانی ٤) گوهر تمام عقلانی

٦- سوره توحید مربوط به کدام یک از مراتب توحید است؟

۱) توحید در خالقیت ۲) توحید در ذات

۳) توحید در صفات ۴) توحید در عبادت

۷- آیه شریفه «آیا گمان کرده اید شما را بیهوده آفریده ایم و بسوی ما باز نمی گردید» به کدام برهان اثبات معاد اشاره دارد؟

۱) حکمت ۲) فطرت ۳) عدالت ۴) قدرت

۸- قرآن کریم مرگ جامعه را بر اثر چه عاملی می داند؟

۱) ظلم و نافرمانی خداوند ۲) برپایی قیامت

۳) ترک امر به معروف ۴) سیل و زلزله

۹- صفات علم و اراده به ترتیب کدام صفت الهی را بیان می کند؟

۱) فعلی، فعلی ۲) ذاتی، ذاتی ۳) فعلی، ذاتی ۴) ذاتی، فعلی

۱۰- از منظر قرآن، چرا انسان به انکار معاد می پردازد؟

۱) نادانی ۲) باز شدن راه گنهکاری

۳) ناتوانی ۴) سست عنصری

۱۱- کدام اراده الهی از رابطه خاص خدا با مخلوقات سرچشمه می‌گیرد؟

۱) تکوینی، در آن امکان تخلف اراده از مراد وجود دارد.

۲) تشریعی، خداوند اگر امری را اراده کند بالضروره تحقق می‌یابد.

۳) تکوینی، خداوند اگر امری را اراده کند بالضروره تحقق می‌یابد.

۴) تشریعی، در آن امکان تخلف اراده از مراد وجود دارد.

۱۲- آیات شریفه «و لا تکلف نَفْساً إلا وسعها» و «فلا تظلم نفس شیئاً» به ترتیب بیانگر کدام نوع عدل می باشند؟

۱) اخروی- تکوینی ۲) تشریعی – جزایی

۳) تکوینی – جزایی ۴) تشریعی- اخروی

۱۳- آیات شریفه «واتَّخَذُوا مِن دُونِ اللَّهِ آلِهَه لَعَلَّهُم ینصَرُونَ» و «فَاتَّقُوا اللّٰهَ مَا اسْتَطَعْتُم» ناظر بر کدامیک از ابعاد توحید است؟ (تالیف توسط سایت ایران عرضه)

۱) خالقیت – اطاعت ۲) عبادت- ربوبیت

۳) خالقیت – عبادت ۴) ربوبیت- اطاعت

❖ فصل دوم: سوالات ادبیات و نگارش اداری

➢ بخش اول: سوالات ادبیات فارسی

۱- معنی واژه های مشخص شده در دو بیت زیر، به ترتیب در کدام گزینه آمده است؟

أوخ که شدم هیزم و آتشگر گیتی — اندام مرا سوخت چنین ز آتش ادبار

خندید برو شعله که از دست که نالی — ناچیزی تو کرد بدین گونه تو را خار

۱) دریغ، همیشگی، تیغ — ۲) افسوس، بدبختی، تیغ

۳) افسوس، همیشگی، پست — ٤) دریغ، بدبختی، پست

☑ **پاسخ سایت ایران عرضه: گزینه ٤** ⇦ معنی واژه های مشخص شده به ترتیب عبارتند از: اوخ/آوخ (افسوس، دریغ و هیهات)- ادبار (بدبختی، فلاکت و سیه روزی)- خار در این مصراع با توجه به معنی و مفهوم شعر، در اصل به صورت خوار بوده و برای زیبا نویسی به صورت خار نوشته شده است لذا در این مصراع واژه خوار مدنظر میباشد که معنی آن به صورت پست و حقیر و سرافکنده میباشد. با توجه به این معانی گزینه ٤ پاسخ صحیح میباشد.

۲- مفهوم کدام بیت در مقابل آن درست ذکر نشده است؟

۱) از گفته ی ناکرده و بیهوده چه حاصل؟ — کردار نکو کن که نه سودی است نه گفتار: (پرهیز از علم بی حاصل)

۲) دادند دو گوش و یک زبانت ز آغاز — یعنی که دو بشنو و یکی بیش مگوی: (پرهیز از گزاف گویی)

۳) آن شاخ که سر برکشد و میوه نیارد — فرجام، به جز سوختنش نیست سزاوار: (پرهیز از بی ثمری)

٤) تو به صورت رفته ای ای بی خبر — زان ز شاخ معنی ای بی بار و بر: (پرهیز از ظاهربینی)

☑ **پاسخ سایت ایران عرضه: گزینه ٤** ⇦ این توضیح به صورت ناقص مفهوم بیت را منتقل می کند. بیت علاوه بر نقد ظاهربینی، به عمق گرایی و توجه به معنا و محتوا اشاره دارد. شاعر به شخصی که تنها به ظاهر توجه دارد و از معنا و باطن غافل است، هشدار می دهد که شاخی که معنویات و بار ندارد، بی فایده است.

۳- جمع و فرد کلمه ها در کدام گزینه درست است؟ (تنظیم توسط فروشگاه ایران عرضه)

۱) جلد (اجلاد) – حفظ (حافظ) – آفت (أفات)- قوه (قوا)

۲) وارث (ورثه) – سند (مستندات)- شرط (مشروط) – حکیم (حکما)

۳) لون (الوان)- عجیب (عجایب) – مجلد (مجلدات) – وارث (وراث)

٤) وحش (وحوش) – خروش (خروشان) – ملک (املاک) – سند (اسناد)

٤- در کدام گزینه تضاد وجود دارد؟

۱) دست در دامن مولا زد، در — که علی بگذر و از ما نگذر

۲) دهقان چو تنور خود از بن هیمه برافروخت — بگریست سپیدار و چنین گفت دگربار

۳) برگ درختان سبز در نظر هوشیار　　هر ورقش دفتری ست، معرفت کردگار

٤) گر بود اختیار جهانی به دست من　　می ریختم تمام جهان را به پای تو

۵- در متن «متوجه شد که سربازان دشمن بعثی به صورت قافلگیر کننده از رودخانه ی بهمنشیر گزشته اند و می خواهند شهر محاصره شده آبادان را اشغال کنند» چند غلط املایی وجود دارد؟

۱) دو　　۲) سه　　۳) چهار　　٤) پنج

٦- واژه های «خَلَق، کاره، کربت، مرادف» یعنی .... .

۱) خواری، زندان، ناشنوایی، هدف　　۲) جمعیت، کوشا، ناشنوا، هماهنگ

۳) نگران، شایسته، اندوه، هدفمند　　۴) کهنه، ناپسند، اندوه، مترادف

۷- نام نویسندگان «سبک شناسی» و «یکی بود یکی نبود» در کدام گزینه به درستی و به ترتیب آمده است؟

۱) ملک الشعرای بهار – محمدعلی جمالزاده　　۲) ملک الشعرای بهار – جلال آل احمد

۳) ذبیح الله صفا – مهدی حمیدی شیرازی　　۴) علی اکبر دهخدا – جلال آل احمد

۸- از نظر اصول ویرایش زبان و نگارش معیار فارسی، کدام جمله درست است؟ (تهیه شده توسط ایران عرضه)

۱) فناوری می رود که چهره زمین را به کلی دگرگون کند

۲) روی دوست بی صداقت حساب نکن

۳) ممکن است فردا باران بیاید

۴) من روی این کار، خیلی وقت گذاشته ام

۹- از نظر آیین نگارش فارسی، کدام گزینه درست است؟

۱) آزمایشات　　۲) کارخانجات　　۳) احوال ها　　۴) آشناییت

۱۰- در عبارت «گو شمع میارید در این جمع که امشب / در مجلس ما ماه رخ دوست تمام است» چند صفت وجود دارد؟

۱) یک صفت　　۲) دو صفت　　۳) سه صفت　　۴) چهار صفت

۱۱- معنای کدام واژه، درست نیست؟

۱) رعب: بیم　　۲) رجم: ترجمه کردن　　۳) شوخ چشم: گستاخ　　٤) شرزه: خشمگین

۱۲- در بیت کدام واژه «ایهام» دارد؟

«چشم چپ خویشتن بر آرم　　تا روی نبیندت به جز راست»

۱) خویشتن　　۲) چشم　　۳) چپ　　٤) راست

۱۳- در عبارت «بوسهل را صفرا بجنبید و بانگ برداشت» صفرا بجنبیدن کنایه از چیست؟ (تهیه شده توسط ایران عرضه)

۱) خشمگین شدن　　۲) برخاستن

۳) به هم خوردن مزاج　　٤) تکان خوردن

➢ بخش دوم: سوالات آیین نگارش و مکاتبات اداری

۱- مطابق با اصل ۱۵ قانون اساسی رسالت هر ایرانی پاسداری از کدام یک از موارد زیر است؟

۱) کیان زبان ملی ۲) تمامیت ارضی

۳) فرهنگ فارسی ۴) فرهنگ ایرانی

☑ **پاسخ سایت ایران عرضه: گزینه ۱** ⇦ همچنین زبان از ارکان بنیادین هویت تاریخی و ملی است و پاسداری از کیان زبان ملی، مطابق با اصل۱۵ قانون اساسی، رسالت هر ایرانی است و ماندگاری هر ملت با ماندگاری زبانش پیوند دارد.

۲- قدیمی ترین و ساده ترین و ارزان ترین وسیله ارتباطی درانسان ها چیست؟

۱) خط تصویری ۲) ارتباط کلامی

۳) نامه نگاری ۴) تصویر نگاری

☑ **پاسخ سایت ایران عرضه: گزینه ۳** ⇦ نامه نگاری: قدیمی ترین، ساده ترین و ارزان ترین وسیله ی ارتباط انسان هاست. بارها دیده ایم وقتی قلم به دست می گیرند طبیعی ترین و ساده ترین شیوه ی بیان مطلب را فراموش میکنند و ترکیباتی نادرست و بی معنی می سازند. نمونه های این نثر ناسالم را در نامه های اداری به فراوانی می توان یافت.

۳- مهمترین ویژگی نامه اداری چیست؟

۱) مستدل و منطقی بودن ۲) رسایی

۳) رسمی بودن ۴) اطلاع رسانی

۴- کدام یک از موارد زیر از ویژگی های زبان معیار محسوب نمی شود؟

۱) پرهیز از زبان شکسته ۲) محتوا گرایی

۳) زبان رسمی و علمی ٤) مستدل و منطقی بودن

۵- هدف از زبان معیار چیست؟

۱) رساندن مفهوم و محتوا ۲) تاثیرگذاری

۳) تحریک احساسات ۴) تحریک عواطف مخاطب

۶- کدام یک از موارد زیر از ارکان یک نامه اداری محسوب نمی شود؟

۱) ذکر رونوشت ۲) کلمات احترام آمیز برای ورود به متن

۳) توضیح کامل موضوع ۴) عنوان مخاطب

۷- خطاهای دستوری و نگارشی که موجب می شود نثر نامه ی اداری از نثر سالم فارسی دور شود اصطلاحا چه نامیده می شود؟

۱) خطاهای محتوایی ۲) خطاهای ظاهری

۳)خطاهای نحوی ۴)خطاهای ادبی

۸- در کدام گزینه حذف فعل به حالت قرینه به طور صحیح انجام نگرفته است؟

۱) متن پیشنهادی در اون کمیسیون مطرح و پس از تصویب و تایید ابلاغ شود.

۲) مطالب جلسه را یادداشت و ارسال کنید.

۳) نامه ها را به حسابداری ارسال و پیگیری کنید.

۴) مدارک را به دبیرخانه تحویل و رسید بگیرید.

۹- در صورتی که به جای جمله " این گزارش به وسیله اداره کل روابط عمومی تهیه شده است "بنویسیم: اداره کل روابط عمومی این گزارش را تهیه کرده است" کدام یک از خطاهای محتوایی زیر صورت گرفته است؟

۱) حذف فعل ۲) کاربرد عبارت وصفی به جای فعل

۳) به کار بردن فعل مجهول با فاعل ۴) مطابق نبودن فعل ها

۱۰- در کدام یک از موارد زیر کاربرد صفت مونث در نوشته فارسی به طور صحیح اضافه نشده است؟

۱) قانون مصوبه ۲) گزارش رسیده ۳) نامه مربوطه ۴) قرارداد منعقده

۱۱- در کدام گزینه عبارت قالبی صحیح استفاده شده است؟

۱) از مجوز ساخت برخوردار نیست ۲) ابواب جمعی

۳) مشارالیه ۴) به هر حال

۱۲- در متن" احتراماً در پاسخ به سوال مطروحه جناب عالی معروض می دارد که روابط عمومی سازمان طبق لیست ضمیمه برای گرفتن ویزای آقای کمالی اقدام نموده و پاسپورت را هم به هواپیمایی تحویل داده است و علت نرسیدن ایشان به مراسم افتتاحیه کنسل شدن پرواز شرکت ماهان بوده است" از چند واژه بیگانه استفاده شده است؟

۱) ۵ ۲) ۶ ۳) ۸ ۴) ۹

۱۳- در کدام یک از گزینه های زیر حرف اضافه "به" می تواند جدا نوشته نشود؟

۱) به نام خدا ۲) به اطلاع می رسانم

۳) به موقع ۴) رو به رو

❖ فصل سوم: سوالات زبان انگلیسی

1- For instance, under the main entry amicable, two nouns and an adverb are also listed. 'for instance' means …….

1) generally, 2) for example 3) extensively 4) put emphasis

۱- بعنوان مثال در زیر ورودی اصلی «amicable» دو اسم و یک قید نیز جای می گیرند. for instance (بعنوان مثال) به معنای ..... است.

۱) عموماً ۲) برای مثال ۳) به صورت گسترده ٤) تأکید کردن

☑ **پاسخ سایت ایران عرضه: گزینه ۲ ⇦** (for instance و for exmple هر دو به معنای «بعنوان مثال» هستند)

2- It is important to acquaint yourself ……. your library as very first stage in your academic career.

1) of 2) on 3) by 4) with

۲- به عنوان اولین مرحله از دوره تحصیلی، مهم است که خود را ..... کتابخانه تان آشنا کنید.

۱) از ۲) روی ۳) توسط ٤) با

☑ **پاسخ سایت ایران عرضه: گزینه ٤ ⇦** (acquaint oneself with (آشنا کردن خود با) یک عبارت رایج در زبان انگلیسی است و بنابراین همراه acquaint، واژه with می آید)

3- The books in the library are ……. According to subjects.

1) classify 2) classifies 3) classified 4) classification

4- I've tried those tablets and they haven't done me any …….

1) benefit 2) good 3) better 4) best

5- She had watched birds fly by throwing ..... into the air.

1) yourself 2) herself 3) ourselves 4) themselves

6- I like to visit other countries but I find the …… of travel is too high.

1) money 2) cost 3) expenses 4) currency

7- They did only had my computer for three weeks when I had to have the hard drive…….

1) processed 2) restored 3) retakes 4) revived

8- Mathematics, physics, chemistry and biology are all ……. , while painting is an art.

1) scientist 2) sciences 3) scientific 4) scientifically

9- They should select and arrange people for assigning duties and positions in society. 'Select' means …….

1) evade 2) choose 3) separate 4) eliminate

10- As..... of our employees can afford cars of…… Own they all have to rely on public transport.

1) few/them 2) most/our 3) none/their 4) some /his

11- In the past few months, our company director……more Mettle than most industrialists…….in an entire career.

1) had shown /have done 2) has shown /do

3) showed/would do 4) was showing/may have done

12- I don't imagine he wrote the speech…... but…...did so Certainly made a good job of it.

1) of his /somebody 2) themselves/whichever

3) for them /whomsoever 4) himself/whoever

13- Had they apologized for deliberately overcharging me I……..a complaint with the Consumers Rights Office.

1) will not have filed 2) would definitely file

3) may not have filed 4) would not have filed

IRANARZE.IR
فروشگاه کالاهای دانلودی

❖ فصل چهارم: سوالات هوش و استعداد تحصیلی (GMAT)

➢ بخش اول: سوالات استخدامی هوش و استعداد تحصیلی

۱- فرید بزرگتر از فرداد و فرناز، ولی فرید کوچکتر از فرزاد است. بنابراین به طور ختم می‌توان گفت:

۱) فرداد بزرگتر از فرناز است. ۲) فرداد کوچکتر از فرناز است.

۳) فرزاد بزرگتر از فرداد است. ٤) هر دو جواب (۱) و (۲) درست هستند.

☑ **پاسخ سایت ایران عرضه: گزینه ۳** ⇦ با توجه به اینکه در توضیحات مسئله در ارتباط با ترتیب سنی فرداد و فرناز چیزی نگفته شده است لذا نمیتوان در ارتباط با این دو فرد نظر حتمی داد که در اینصورت گزینه های ۱ و ۲ نادرست میباشند و در پی آن گزینه ٤ نیز نادرست میباشد لذا تنها گزینه درست گزینه ۳ میباشد.

۲- عکس یک عدد با $\frac{۱}{٤}$ آن برابر است. آن عدد کدام است؟

۱) ۲ ۲) -۲ ۳) ± ۲ ٤) ٤

☑ **پاسخ سایت ایران عرضه: گزینه ۳** ⇦ اگر عدد مجهول را با x نشان دهیم خواهیم داشت: $\frac{1}{x}=\frac{1}{4}x \rightarrow 4=x^2 \rightarrow x=\pm 2$

۳- سرعت متوسط اتومبیلی ۷۲ کیلومتر در ساعت است. محیط هر چرخ آن تقریبا ۳ متر است. در مدت یک دقیقه حرکت، هر چرخ چند دور می‌چرخد؟ (منبع ایران عرضه)

۱) ٤۰۰ ۲) ۲۰۰ ۳) ٦۰۰ ٤) ۲٤۰

٤- اگر مساحت مربع به ضلع a، ۲/۵ برابر مساحت مربع به ضلع b باشد، بین a و b کدام رابطه برقرار است؟

۱) a = ۰/۰۵ b ۲) a = ۰/۵ b ۳) ۱۰a = ۲۵ b ٤) ۲a = b $\sqrt{۱۰}$

۵- در یک دبیرستان ۱۵۰ نفری تعداد شاگردان کلاس اول ۳۵ نفر، تعداد شاگردان کلاس دوم ۲۵ نفر و تعداد شاگردان کلاس سوم ۱۰ درصد کل شاگردان است. تعداد شاگردان کلاس چهارم چند درصد کل شاگردان دبیرستان است؟

۱) ۲۵ ۲) ۵۰ ۳) ۷۵ ٤) ۱۵

٦- به ۱۰ گرم آلیاژ مس و طلا، به نسبت ۱ به ۳، چند گرم مس بیافزاییم تا آلیاژ به نسبت ۲ به ۵ تغییر یابد؟

۱) ۰/۳ گرم ۲) ۰/۵ گرم ۳) ۳ گرم ٤) ۲ گرم

۷- در مدرسه ایی ۵۰٪ دانش آموزان دوچرخه دارند، ۳۰٪ دانش آموزانی که دوچرخه دارند اسکیت هم دارند، چند درصد هم اسکیت دارند و هم دوچرخه؟

۱) ۱۵ درصد ۲) ۲۰ درصد ۳) ۲۵ درصد ٤) ٤۰ درصد

۸- چند درصد رمزهای سه رقمی از سه رقم زوج تشکیل شده اند؟

۱) ٪۱۲ ۲) ٪۱۲/۵ ۳) ٪۳۰ ٤) ٪۱۰

۹- برای فرش کردن سالنی، ۷۵۰ عدد موزاییک ۲۰*۲۰ به کار می رود. اگر اضلاع موزاییک ۲۵*۲۵ در نظر گرفته شود، چند عدد موزاییک از آن نوع لازم است؟

۱) ۴۲۰ ۲) ۴۵۰ ۳) ۴۸۰ ۴) ۵۰۰

۱۰- گیاهان هم حس دارند. <u>در میان گیاهان، رتبه اول در حساسیت را گیاه (میموزا) دارد</u>. این گیاه استوایی بر اثر تماس فیزیکی با برگ هایش، آنها را از وسط تا کرده و برگ های شانه ای خود را روی هم میگذارد. این نحوه عکس العمل، مکانیسمی دفاعی برای جلوگیری از صدمه در اثر وجود طوفان های شدید به حساب می آید. <u>این نشان میدهد که گیاهان هم مانند جانوران، به محیط اطراف خود واکنش نشان میدهند.</u>

کدام مورد رابطه دو بخش از متن را که زیر آنها خط کشیده شده است را به منطقی ترین وجه توصیف میکند؟

۱) اولی، ادله ای بر تائید ادعای متن است و دومی، بیان دیگری از ادعاست

۲) اولی، مثالی در تائید نتیجه گیری متن و دومی، قضاوتی در باب آن نتیجه گیری است

۳) اولی، نتیجه گیری متن است و دومی، ادله ای در اثبات آن

۴) اولی و دومی، هر دو ادله ای هستند که ادعای متن را تقویت میکند

۱۱- چه چیزی در انتظار فرزند دوم است؟ این کودک نیز موقعیتی منحصر بفرد دارد. از یک جهت، او هرگز قدرت و جایگاه محور بودن را تجربه نمیکند. زیرا آن جایگاه پیش تر توسط فرزند اول اشغال شده است بنابراین حتی اگر دوباره خواهر یا برادر دیگری پا به دنیا بگذارد، فرزند دوم آن حس کودکانه خلع شدگی را که خودش با ظهورش از فرزند اول گرفته است،..... .

۱) تشدید میکند ۲) تجربه نخواهد کرد

۳) به دست می آورد ۴) فراموش نمیکند

راهنمایی: هرکدام از سوال های زیر را به دقت بخوانید و جواب های هر سوال را در پاسخنامه علامت بزنید.

۱۲- هرکدام از اشکال زیر بین اعداد ارتباط خاص و یکسانی برقرار است، به جای علامت سوال کدام گزینه قرار بگیرد؟

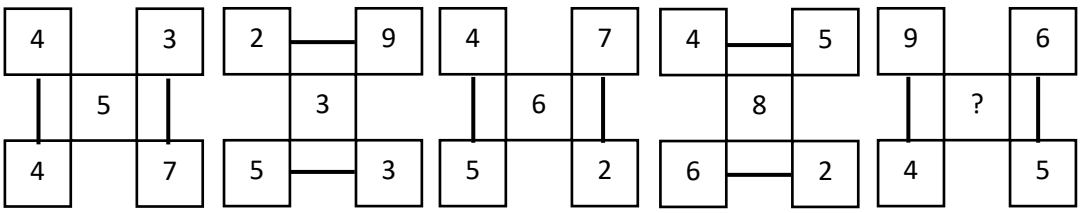

۱) ۸

۲) ۶

۳) ۵

۴) ۲

۱۳- ده مربع مطابق شکل زیر، کنار هم چیده شده و یک مستطیل بزرگ را ساخته اند. نسبت اضلاع مستطیل ساخته شده کدام است؟

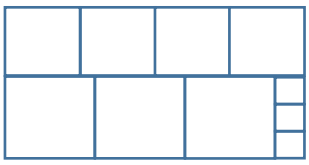

۱) ۱۱ به ۲۰ ۲) ۹ به ۱۹

۳) ۱۱ به ۱۸ ۴) ۲ به ۳

➢ بخش دوم: سوالات جی مت (GMAT)

۱- کشور «الف» برای مدتی طولانی در زمینه گندم و گوشت تا حدی خودکفا بوده است. با این وجود، از آنجا که درآمد سرانه در این کشور به سمت میزان متوسط جهانی رو به افزایش است. مصرف سرانه گوشت هم به سمت میزان متوسط جهانی رو به رشد گذاشته است و برای تولید یک کیلو گوشت، چندین کیلو گندم لازم است. در نتیجه، چون درآمد سرانه مردم رو به افزایش است در حالیکه تولید داخلی گندم افزایش نمی یابد، کشور «الف» به زودی مجبور خواهد بود یا گندم یا گوشت و یا هر دو را وارد کند.

کدامیک از موارد زیر، فرضیه ای است که استدلال فوق، بر آن مبتنی است؟

۱) آن دسته از مردم کشور «الف» که مصرف گوشت خود را افزایش می دهند، به طور چشمگیری مصرف گندم را کاهش نخواهند داد.

۲) درآمد سرانه تولیدکنندگان گوشت در کشور «الف» نسبت به درآمد سرانه تولیدکنندگان گندم آن کشور، با سرعت بیشتری در حال افزایش است.

۳) مصرف سرانه گوشت در کشور «الف»، در تمام سطوح درآمدی، تقریباً به میزان یکسانی در حال افزایش است.

۴) واردات گندم یا گوشت، باعث نخواهد شد که درصد بسیار بالاتری از درآمد مردم، صرف غذا شود.

☑ **پاسخ سایت ایران عرضه: گزینه ۱** ⇦ نتیجه گیری نهایی متن نوشته شده بر این اساس میباشد که خانواده هایی که مصرف گوشت خود را افزایش داده اند مصرف گندم خود را کاهش نداده اند و در نتیجه نه تنها مصرف گندم کاهش (تهیه شده توسط ایران عرضه)پیدا نکرده است، مصرف گندم در پروسه تولید گوشت نیز افزایش یافته است، پس با دقت در اینکه تولید گندم تغییری نکرده است چندیدن حالت به وجود می آید که عبارتند از کاهش تولید گوشت و واردات آن، واردات گندم مورد نیاز برای تولید گوشت و یا واردات هر دو به نسبت مورد نیاز.

۲- با افزایش ۸۰ درصدی وزن A، مجموع وزن A و B، ۲۰ درصد افزایش می یابد. کدام مورد زیر، صحیح است؟

۱) به طور قطع نمی توان چیزی گفت

۲) وزن B ،سه برابر وزن A است

۳) وزن A، ۱/۵ برابر وزن B است

۴) مجموع وزن های A و B،٤/٥ برابر وزن A است

☑ **پاسخ سایت ایران عرضه: گزینه ۲** ⇦ با افزایش ۸۰ درصدی وزن A وزن نهایی A، 1.8 برابر وزن اولیه آن میشود. و همچنین با افزایش ۲۰ درصدی مجموع وزن A و B، مجموع وزن نهایی این دو، 1.2 برابر مجموع وزن اولیه این دو میباشد لذا داریم:

$$A' + B = 1.2(A + B) \rightarrow 1.8A + B = 1.2A + 1.2B \rightarrow 0.6A = 0.2B \rightarrow B = 3A$$

همانطور که مشاهده میکنیم وزن B سه برابر وزن A میباشد.

۳- بین اعداد زیر، ارتباط خاصی برقرار است. به جای علامت سوال، کدام عدد باید قرار گیرد؟

2 12 60 240 720 ?

۱) ۹٦۰ ۲) ۱٤۰۰ ۳) ۱٤٤۰ ۴) ۱۹۲۰

٤- هما چند مرتبه در آزمون زبان شرکت کرده است. نمره وی در هر آزمون، از دو برابر نمره آزمون قبلی اش، ۲ نمره کمتر است. اگر وی سه بار آزمون داده باشد و در آزمون دوم، نمره اش ٦۰ درصد افزایش پیدا کرده باشد، در آزمون سوم نسبت به آزمون دوم، نمره اش چند درصد افزایش یافته است؟

۱) ۵۷ ۲) ٦۰ ۳) ٦٦ ۴) ۷۵

۵- مجموع سن اعضای یک باشگاه ورزشی ۱۸۷ سال و شش ماه است. کوچکترین عضو این باشگاه ۹ سال دارد. اگر افراد این باشگاه به طور متوالی، اختلاف سنی ٦ ماه داشته باشند، تعداد افراد این باشگاه چقدر است؟

۱) ۲۵ ۲) ۱۵ ۳) ۵۰ ۴) نمیتوان تعیین کرد

٦- گاری یک دست فروش تحمل حمل حداکثر ۱۲ کیسه آرد یا حداکثر ۲۱ کیسه گندم و یا حداکثر ۳۰ کیسه برنج را دارد. این دستفروش علاوه بر ۷ کیسه گندم و ۷ کیسه برنج، حداکثر چند کیسه آرد میتواند به بار گاری اضافه و حمل کند؟

۱) ٤ ۲) ۵ ۳) ٦ ۴) ۷

**** با توجه به اطلاعات داده شده به سوالات ۷ الی ۱۱ پاسخ دهید.**

در یک مسابقه شطرنج، چهار شطرنج باز به اسامی A، B، C و D هر کدام دو مرتبه با دیگر حریفان مسابقه می دهند همه مسابقات یک برنده داشته است. از نتایج مسابقات، فقط اطلاعات زیر در دست است:

تعداد بردهای A دو برابر تعداد باخت هایش بوده است

نه C و نه D موفق نشده اند هیچ کدام از حریفهای خود را هر دو بار ببرند.

B نه به C باخته است و نه به D

با توجه به شروط دوم و سوم، فرم اولیه جدول بازی ها به شکل مقابل میباشد که در آن حرف موجود مربع نشان دهنده برنده بازی است

	A	B	C	D
A		?	?	?
B	?		B	B
C	?	B		C
D	?	B	D	

	A	B	C	D
A		?	?	?
B	?		B	B
C	?	B		D
D	?	B	C	

۷- حداکثر تعداد بردهای C ،کدام می تواند باشد؟

۱) ۱ ۲) ۲ ۳) ۳ ۴) ٤

۸- کدام یک از موارد زیر، صحیح میباشد؟

۱) B و C میتوانند هر کدام یک بار A را برده باشند.

۲) تعداد بردهای A و B نمی تواند با هم برابر باشد

۳) C می تواند در همه مسابقات خود بازنده باشد

۴) D می تواند فقط در سه مسابقه بازنده باشد

۹- کدام دو نفر از افراد زیر، از دو مسابقه ای که مقابل هم انجام داده اند، لزوما یکی را برده و دیگری را باخته اند ؟

۱) A و B ۲) B و D ۳) C و D ۴) A و C

۱۰- اگر D فقط یک برد کسب کرده باشد، A مقابل چه کسی (یا کسانی)، هر دو مسابقه خود را لزوما برده است؟

۱) فقط B ۲) فقط D ۳) C و D ۴) B و D

۱۱- کدام فرد (افراد)، تعداد برد و باخت هایشان میتواند برابر هم باشد.

۱) فقط C ۲) C و D ۳) همه به جز A ٤) هیچ کدام از افراد مسابقه دهنده

۱۲- در شکل زیر ، الگوی اول (بالایی) در چهار مرحله تغییر می کند. اگر الگوی دوم (الگوی پایینی) نیز به همین طریق تغییر نماید، این الگو نهایتاً بعد از تغییر چهارم، به کدامیک از موارد ۱ تا ٤ تبدیل خواهد شد؟

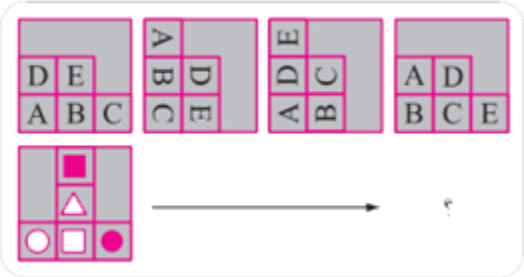

۱) 

۲) 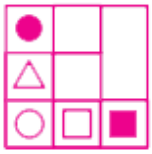

۳)

۴) 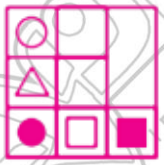

**** فرض کنید مصرف سرانه بنزین در چهار استان کشور که به ترتیب از شمال غرب تا جنوب شرق روی یک خط فرضی قرار دارند، اندازه گیری شده است. مصرف سرانه استان تهران از بهار تا زمستان، به ترتیب ۱۱۰، ۱۲۵، ۱۱۰ و ۷۷ لیتر بوده است. همچنین درصد رشد سرانه مصرف بنزین هر استان نسبت به استان مجاور غربی اش، در جدول زیر داده شده است (برای مثال: در فصل تابستان، سرانه مصر بنزین استان یزد ۲۰ درصد کمتر از استان اصفهان بوده است.**

استان	بهار	تابستان	پاییز	زمستان
البرز				
تهران	11.11	17.92	-9.09	10.00
اصفهان	-10.00	-20.00	00.00	12.90
یزد	-11.11	-20.00	10.00	-19.54

۱۳- سرانه مصرف بنزین استان البرز در فصل زمستان، تقریباً چند لیتر است؟

۱) ۸۵ ۲) ۸۰ ۳) ۷۰ ۴) ۷۵

❖ فصل پنجم: سوالات مهارتهای هفتگانه ICDL

۱- نام فایل در ویندوز حداکثر چند کاراکتر می‌تواند باشد؟

۱) ۱۱ ۲) ۲۵٦ ۳) ۸ ٤) محدودیت ندارد

☑ **پاسخ سایت ایران عرضه: گزینه ۲** ⇦ نامگذاری پوشه ها و فایل ها در ویندوز تابع قوانینی است که یکی از آنها به این صورت میباشد: حداکثر تعداد کاراکتر برای نامگذاری یک فایل در ویندوز، ۲۵٦ کاراکتر میباشد. همچنین در این نامگذاری نمیتوان از کاراکتر های خاصی همچون علامت سوال، ستاره، دو نطقه و ... استفاده کرد.

۲- حاصل فرمول $\min(sum\ (٤\ ;٣); Max\ (٢\ ;٣))$ = چیست؟

۱) ۱۰ ۲) ۷ ۳) ۳ ٤) ۲

☑ **پاسخ سایت ایران عرضه: گزینه ۳** ⇦ ابتدا نتیجه توابع داخلی را حساب میکنیم. تابع sum جمع دو آرگومان خود را به عنوان خروجی دارد، تابع max نیز بزرگترین مقدار را از بین دو آرگومان خود به عنوان خروجی ثبت میکند. در نهایت تابع min به صورت min(7;3) خواهد بود که این تابع نیز کوچکترین عدد را از میان دو آرگومان خود به عنوان خروجی ثبت میکند که این خروجی برابر است با ۳

۳- خطایی که زمانی اکسل متنی را در فرمول درست تشخیص ندهد ظاهر می‌شود چیست؟

۱) ۱#value ۲) #### ۳) #name? ٤) #div/o!

٤- کدام یک از فرمول‌های زیر معدل اعداد درون سلول‌های c4 تا c8 را نمایش می‌دهد؟

۱) = average (c4 : c8) ۲) = sum (c4 : c8)

۳) = average (c4 ; c8) ٤) = sum (c4 ; c8)

۵- برای نشان دادن عدد به صورت کسر از کدام گزینه‌ها استفاده می‌شود؟

۱) Currency ۲) Scientific ۳) Accounting ٤) Fraction

٦- در نمایش آیکن ها به طوریکه بتوان نمایش آیکن ها را به شکل کاشیکاری دید، از کدام گزینه زیر استفاده می شود؟

۱) List ۲) Details ۳) Small Icon ٤) Tiles

۷- برای مرتب سازی براساس نوع و تاریخ ویرایش به ترتیب از راست به چپ کدام فرمان ها را باید از منوی میانبر انتخاب نمود؟

۱) DATE MODIFIED – TYPE ۲) TYPE – DATE

۳) TYPE – DATE MODIFIED ٤) DATE- MODIFIED

۸- در کدام منو فرمان هایی برای سازماندهی اطلاعات پنجره مثل کپی، انتقال، حذف و غیره وجود دارد؟

۱) Open ۲) New Folder

۳) Navigation pane ٤) Organize

۹- برای اینکه یک خانه را به چند خانه فرعی تقسیم کنیم از کدام گزینه استفاده می کنیم؟

۱) Merge Cell ۲) Table Auto Format

۳) Select Row ٤) Split Cells

۱۰- در پنجره Font کدام گزینه متن را سایه دار می کند؟

۱) Emboss ۲) Shadow ۳) Out Line ٤) Engrave

۱۱- کدام روش برای تغییر نام یک فایل در ویندوز مورد استفاده قرار میگرد؟

۱) زدن کلید F2

۲) دوبار کلیک کردن با ماوس روی نام فایل

۳) راست کلیک کردن روی نام فایل و زدن گزینه Rename

٤) همه موارد فوق

۱۲- اگر در نرم افزار پاورپوینت روی یک اسلاید با دکمه راست ماوس کلیک کنیم، منوی مقابل نمایش داده می شود. کدام گزینه اسلایدی مانند اسلاید انتخاب شده را به فایل ما اضافه خواهد کرد؟

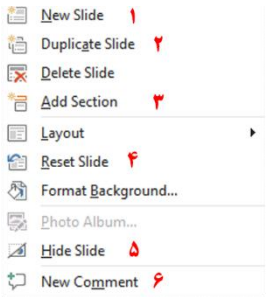

۱) گزینه ۱

۲) گزینه ۲

۳) گزینه ٤

٤) گزینه ٦

۱۳- در نرم افزار Excel 2016، حاصل کدام تابع زیر با پارامتر ورودی آن متفاوت است؟

۱) ABS(4) ۲) ABS(4.5) ۳) ABS(- 2) ٤) ABS(4.2)

❖ فصل ششم: سوالات اطلاعات و هوش محیطی

➢ بخش اول: سوالات اطلاعات عمومی

۱- نظارت بر انتخابات شورای اسلامی شهر و روستا به عهده کدام گزینه زیر است؟ (منبع ایران عرضه)

۱) شورای نگهبان

۲) مجلس شورای اسلامی

۳) شهر برعهده مجلس و روستای بر عهده بخشداری ها

٤) وزارت کشور

☑ **پاسخ سایت ایران عرضه: گزینه ۲** ⇦ بر اساس ماده ۷۳ از قانون اصلاح قانون تشکیلات شوراهای اسلامی کشوری و انتخابات شوراهای مزبور، بمنظور نظارت بر امر انتخابات شوراها هیأت مرکزی نظارت بر امر انتخابات شوراهای اسلامی کشوری متشکل از سه نفر از اعضاء کمیسیون شوراها و امور داخلی و دو نفر از اعضاء کمیسیون اصل ۹۰، به انتخاب مجلس شورای اسلامی تشکیل میگردد.

۲- بعد از افشاریان کدام سلسله بر ایران حکومت کردند؟

۱) صفویان ۲) قاجاریان ۳) زندیان ٤) مرعشیان

☑ **پاسخ سایت ایران عرضه: گزینه ۳** ⇦ نادرشاه افشار ضمن تسلط بر تمامی خاک ایران، سلسله افشاریان را در سال ۱۷۳٤ میلادی تأسیس نمود. پس از افشاریان، زندیان در سال ۱۷۵۰ میلادی بر تخت قدرت تکیه زدند و در دوره حکومت آنها شهر شیراز به پایتختی انتخاب گردید. دوران پادشاهی زند به سردمداری کریم خان در سال ۱۱۶۳ قمری آغاز شد. پس از قتل نادر و به دنبال اغتشاشات گسترده و عمومی در این ایام، سرانجام کریم خان توانست پس از شانزده سال مبارزه دایمی بر تمامی حریفان خود از جمله محمدحسن خان قاجار و آزاد خان افغان غلبه کند و صفحات مرکزی و شمالی و غربی و جنوبی ایران را در اختیار بگیرد.

۳- علامت اختصاری سازمان جهانی خوارو بار کشاورزی چیست؟

۱) FWO ۲) WTO ۳) FAO ٤) WHO

٤- مفهوم دو اصطلاح ((آنارشیسم)) و ((لائیک)) در کدام گزینه بیان شده است؟

۱) تجدد گرایی- بدون دین و مذهب

۲) آزادی خواهی- جدایی دین از سیاست

۳) نداشتن دین و حکومت- بدون دین و مذهب

٤) آزادی خواهی- تجدد گرایی

۵- تابلو نقاشی ((ضامن آهو)) از آثار کدام یک از اساتید زیر است؟

۱) محمود فرشچیان ۲) صادق بیک افشار

۳) کمال الملک ٤) حسین بهزاد

٦- رییس سازمان امور مالیاتی توسط چه کسی منصوب می شود؟

۱) وزیر اقتصاد پس از موافقت رییس جمهور

۲) ریس سازمان برنامه و بودجه

۳) وزیر اقتصاد پس از موافقت هیات وزیران

۴) رییس جمهور

۷- پر افتخار ترین ورزشکار ایرانی المپیک کیست؟

۱) حسین رضازاده ۲) غلامرضا تختی

۳) هادی ساعی ۴) رسول خادم

۸- عقیده به ایجاد امپراتوری اقتصادی از راه تصرف سایر ممالک به هر وسیله ای عبارت است از:

۱) آنارشیسم ۲) سکولاریسم ۳) فاشیسم ۴) امپریالیسم

۹- به کدام یک از علوم زیر، جایزه نوبل نمی گیرد؟

۱) شیمی ۲) پزشکی ۳) ریاضی ۴) زیست شناسی

۱۰- مقاوم ترین ماهیچه در بدن انسان کدام است؟

۱) چشم ۲) بازو ۳) قلب ۴) زبان

۱۱- کدام مورد از توصیه های صریح بیانیه گام دوم انقلاب اسلامی به جوانان عزیز نیست؟

۱) در جمهوری اسلامی، دل های مسئولان به طور دائم باید از شکاف های عمیق طبقاتی به شدت بیمناک باشد

۲) در جمهوری اسلامی، میدان دادن به ویژه خواری و مدارا با فریبگران اقتصادی، به شدت ممنوع است

۳) در جمهوری اسلامی، دل های مسئولان به طور دائم باید برای رفع محرومیت ها بتپد

٤) در جمهوری اسلامی، نباید فساد در ساختار و محتوای نظام اسلامی نهادینه شود

۱۲- اصل کلیدی حاکم بر روابط بین المللی جمهوری اسلامی که می تواند شاخه های مختلفی داشته باشد، کدام است؟

۱) عزت، حکمت و مصلحت

۲) شجاعت، مصلحت و مبارزه با استکبار

۳) عزت، روابط خارجی و مرزبندی با دشمن

٤) شجاعت، حکمت مدیران و مرزبندی با دشمن

۱۳- حق تصمیم گیری و عمل کردن و اندیشیدن برای همه افراد چه نام دراد ؟ (iranarze)

۱) آزادی اجتماعی ۲) استقلال ملّی ۳) عزّت ملّی ٤) هدیه الهی

➢ بخش دوم: سوالات دانش علوم بانکی

۱- در چکی که محل صدور چک با محل پرداخت وجه آن یکی باشد در قانون تجارت بعد مسافت از محل صدور چک تا محل پرداخت آن چه مدت زمان می باشد؟

۱) ده روز از تاریخ صدور ۲) ۱۵ روز از تاریخ صدور

۳) یک ماه از تاریخ صدور ٤) ۴۵ روز از تاریخ صدور

☑ **پاسخ سایت ایران عرضه: گزینه ۲** ⇦ اگر چک در همان مکانی که صادر شده است باید تادیه گردد دارنده چک باید ظرف ۱۵ روز از تاریخ صدور و جه آن را مطالبه کند.

۲- اگر محل صدور چک با محل تادیه یکی نباشد ظرف ..... از تاریخ صدور مطالبه می شود.

۱) ۱۰ روز ۲) پانزده روز ۳) ۲۵ روز ٤) ۴۵ روز

☑ **پاسخ سایت ایران عرضه: گزینه ٤** ⇦ اگر چک از یک نقطه به نقطه دیگر ایران صادر شده باشد باید ظرف ۴۵ روز از تاریخ صدور چک مطالبه شود.

۳- دارنده چک بی محل می تواند با انتخاب کدام یک از تو گزینه های زیر وجه را مورد مطالبه قرار دهد؟

۱) صدور اجرائیه از طریق اجرای ثبت

۲) مراجعه به ظهرنویسان در مدت قانونی

۳) طرح شکایت کیفری به دادسرا و تسلیم دادخواست مطالبه وجه

٤) همه موارد

٤- در برابر صدور چک بلامحل کدام یک از ضمانت های اجرایی تعبیه گردیده است؟

۱) حبس تعزیری از ۶ ماه تا دوسال

۲) بر حسب مورد جزای نقدی معادل یک چهارم وجه چک یا یک چهارم کسر موجودی

۳) مجازات حبس پنج تا شش سال

٤) جزای نقدی معادل مبلغ چک

۵- مرور زمان شکایت کیفری علیه چک بلامحل چه مدت زمان می باشد؟

۱) یک سال از تاریخ صدور چک ۲) شش ماه از تاریخ مراجعه به بانک

۳) شش ماه از تاریخ صدور چک ٤) دو سال از تاریخ صدور چک

٦- کدام یک از گزینه های زیر در مورد چک بلامحل صدق نمی کند؟

۱) دارنده چک موظف است ظرف مدت ۶ ماه برای وصول آن به بانک مراجعه کند وگرنه حق شکایت کیفری نخواهد داشت.

۲) کسی که چک پس از برگشت از بانک به او منتقل گردیده حق شکایت کیفری نخواهد داشت مگر آنکه انتقال قهری باشد.

۳) کسی که چک پس از برگشت از بانک به او منتقل شده نیز حق شکایت کیفری دارد.

٤) هرگاه بعد از شکایت کیفری شاکی چک را به دیگری انتقال دهد یا حقوق خود را نسبت به چک به دیگری واگذار نماید تعقیب کیفری موقوف خواهد شد.

۷- بانک حساب جاری اشخاص را که اقدام به صدور یک فقره چک بلامحل نمایند و بنا به تقاضای دارنده چک منجر به صدور گواهینامه عدم پرداخت به علت فقدان موجودی شود تحت عنوان حساب ..... تلقی می کند.

۱) حساب جاری درگیر ۲) حساب مسدود

۳) حساب بی اعتبار ٤) حساب بی محل

۸- کدام یک از شرایط رفع سوء اثر از سوابق چک های برگشتی می باشد؟

۱) حساب جاری صادر کننده توسط بانک پرداخت شده باشد.

۲) لاشه چک ارائه شود.

۳) رضایتنامه دارنده چک که مشخصات آن با مندرجات موجود در گواهینامه عدم پرداخت چک مطابقت دارد اخذ شود.

٤) همه موارد

۹-..... چکی است که در موقع گشایش حساب جاری بر اساس تقاضای کتبی مشتری در اختیار وی قرار می گیرد تا با هر برگ آن از حساب خود برداشت یا به دیگری منتقل نماید.

۱) چک گواهی شده ۲) چک عمومی

۳) چک عادی ٤) چک مسافرتی

۱۰- چکی که وجود محل آن و چه چک بنا به درخواست دارنده حساب برای مدت معین که معمولاً برای ارائه چک لازم است از طرف بانک تایید شده باشد و بانک معادل مبلغ آن چک را از حساب مشتری برداشت یا در همان حساب تا زمان ارائه چک برای دریافت وجه مسدود می نماید به اصطلاح .....می باشد.

۱) چه عادی ۲) چک گواهی شده ۳) چک عمومی ٤) چک مسافرتی

۱۱- .....چکی است که بنا به درخواست مشتری توسط یکی از شعب بانک ملی عهده واحدهای خودی با مبلغ معینی که وجه آن را مشتری پرداخت می کند صادر می شود.

۱) چک تضمین شده رمزدار شهری ۲) چک صیادی

۳) چک های مسافرتی ٤) چک های گواهی شده

۱۲- کدام یک از گزینه های زیر در رابطه با چک اشتباه می باشد؟

۱) هرگاه در متن چک شرطی برای پرداخت قید شده باشد بانک به آن شرط ترتیب اثر خواهد داد.

۲) چک فقط در تاریخ مندرج در آن یا پس از تاریخ مذکور قابل وصول از ما نخواهد بود.

۳) هرگاه چک به علتی از علل مندرج در ماده ۳ پرداخت نگردد بانک مکلف است در برگ مخصوصی مشخصات چک و هویت و نشانی کامل صادرکننده آن را ذکر کند.

٤) در صورتی که موجودی حساب صادر کننده چک کمتر از مبلغ چک باشد به تقاضای دارنده چک بانک مکلف است مبلغ موجود در حساب را به دارنده چک بپردازد

۱۳- ..... عبارت است از سهمی از درآمد مردم یک کشور که به مصارف جاری و زودگذر تخصیص نیافته و صرف اندوخته یا سرمایه گذاری به امید تحصیل درآمد عادی که موثر در افزایش سرمایه ملی می باشد می گردد.

۱) سپرده
۲) سرمایه گذاری کوتاه مدت
۳) پس انداز
٤) مانده حساب

IRANARZE.IR
فروشگاه کالاهای دانلودی

➢ بخش سوم: سوالات آشنایی با بانک تجارت

۱- کدام یک از اشخاص ذیل نمی تواند در بانک تجارت سهامدار باشند؟

۱) اشخاص خارجی تا سقف ٤٠٪ ۲) اشخاص حقیقی

۳) شرکت های دولتی ٤) شرکت تعاونی سهامی عام با سقف حداکثر ۱۰٪

☑ **پاسخ سایت ایران عرضه: گزینه ۳** ⇦ سقف مجاز تملک سهام بانک

ماده ۷- سقف مجاز تملک سهام بانک به صورت مستقیم و غیرمستقیم به شرح جدول ذیل است:

اشخاص	حداکثرسقف مجاز (درصد)
شرکت سهامی عام	۱۰
شرکت تعاونی سهامی عام	۱۰
مؤسسه و نهاد عمومی غیردولتی	۱۰
سایراشخاص حقوقی	۵
اشخاص خارجی	با مجوز بانک مرکزی جمهوری اسلامی ایران تا سقف ۴۰ درصد
اشخاص حقیقی	۵
اعضای خانواده هرشخص حقیقی (همسر،فرزندان و همسران آنان ، برادر ، خواهر ، پدر و یا مادر)	سقف فردی : ۵
	سقف جمعی: به میزانی که نتوانند مشترکاً بیش از یک عضو هیأت‌مدیره تعیین‌کنند.

تبصره ۱- اشخاص حقوقی که بخشی از سرمایه و یا سهام آن ها متعلق به دولت و یا شرکت های دولتی بوده و یا تحت مدیریت بخش دولتی قرار دارند، نمی توانند در بانک سهامدار باشند.

تبصره ۲- بانک نمی تواند در هیچ زمانی، بیش از یک درصد سهام بانک یا مؤسسه اعتباری غیر بانکی دیگری را دارا باشد. میزان سرمایه گذاری بانک های غیر دولتی در بانک های خارجی، منوط به اخذ تأییدیه از شورای پول و اعتبار است.

۲- کدام یک از اطلاعات زیر در اوراق سهام بانک تجارت ذکر نمی شود؟

۱) نام بانک و شناسه ملی و شماره ثبت آن

۲) شماره ثبت اوراق نزد سازمان بورس و اوراق بهادار

۳) مبلغ سرمایه ثبت شده

٤) تعداد کل سهام و اسامی کلیه سهامداران

☑ **پاسخ سایت ایران عرضه: گزینه ٤** ⇦ ورقه سهم : ماده ۱۲- اوراق سهام بانک، متحد الشکل، چاپی و دارای شماره ترتیب بوده و به امضای رییس هیئت مدیره و مدیر عامل بانک می رسد. این اوراق ممهور به مهر بانک می گردد. در ورقه سهم نکات زیر ذکر می شود:

۱. نام بانک و شناسه ملی / شماره ثبت آن نزد مرجع ثبت شرکت ها؛

۲. شماره ثبت اوراق نزد سازمان بورس و اوراق بهادار؛

۳. مبلغ سرمایه ثبت شده؛

٤. نوع سهم؛

٥. مبلغ اسمی سهم به عدد و حروف؛

٦. تعداد سهامی که هر ورقه نماینده آن است؛

٧. نام و شماره ملی / شناسه ملی / شماره اختصاصی (در مورد اتباع خارجی) دارای سهم.

٣- مطابق اساسنامه بانک، گزینه نادرست را بیابید؟

١) نقل و انتقال سهام بانک منحصرا از طریق شرکت بورس اوراق بهادار و یا فرابورس ایران امکان پذیر است.

٢) تملک، تحصیل هر بخش از سهام بانک متضمن قبول مقررات این اساسنامه و تصمیمات مجامع عمومی سهامداران است.

٣) سهام بانک قابل تجزیه است.

٤) انتقال سهام باید در دفتر ثبت سهام قید شده و به امضای انتقال گیرنده یا وکیل یا نماینده قانونی وی برسد.

٤- سرمایه بانک تجارت از طریق صدور سهام جدید در چارچوب قوانین و پس از اخذ مصوبه ..... قابل افزایش می باشد.

١) بانک مرکزی ٢) شورای پول و اعتبار

٣) وزارت اقتصاد و دارایی ٤) مرکز اطلاعات

٥- طبق ماده ٢٧ اساسنامه بانک، در صورت تصویب افزایش سرمایه، مهلت اعمال حق تقدم خرید سهم چقدر است؟

١) ١ ماه ٢) ٦٠ روز ٣) ٣ ماه ٤) ٢٠ روز

٦- مجمع عمومی فوق العاده بر اساس اساسنامه بانک تجارت چه زمانی تشکیل می شود؟

١) حداقل سالی یکبار ٢) حداکثر ظرف مدت ٤ ماه از تاریخ پایان سال مالی

٣) سالانه ٤) هر زمانی می تواند تشکیل شود.

٧- چنانچه هیأت مدیره، مجمع عمومی عادی سالانه را در موعد مقرر دعوت نکند چه کسی مکلف است رأساً به دعوت اقدام نماید؟

١) نائب رییس ٢) بازرس بانک

٣) ریاست بانک مرکزی ٤) دبیرخانه

٨- کدام گزینه از وظایف و اختیارات مجامع عمومی بانک است ؟

١) انتخاب و عزل اعضای هیئت مدیره ٢) انتخاب و عزل حسابرس بانک و جبران خدمات آن

٣) تصویب میزان سود قابل تقسیم ٤) همه موارد

٩- فاصله بین دعوت و انعقاد هر یک از جلسات مجامع عمومی عادی و فوق العاده حداقل ..... و حداکثر..... خواهد بود.

١) ١٠ روز – ٢٠ روز ٢) ١٠ روز – ٤٠ روز

۳) ۲۰ روز – ٤٠ روز ٤) ۱۵ روز – ۳۰ روز

۱۰- طبق اساسنامه بانک تجارت، حد نصاب رسمیت مجمع عمومی عادی چقدر است؟

۱) حداقل حضور دارندگان ثلث سهامی

۲) حداقل حضور ٤٠ درصد دارندگان سهامی

۳) حداقل حضور دارندگان نصف سهامی

٤) حداقل حضور دارندگان بیش از نصف سهامی

۱۱- هیئت مدیره بانک تجارت متشکل از چند نفر است؟

۱) ۲ نفر ۲) ۳ نفر ۳) ۵ نفر ٤) ۱۰ نفر

۱۲- مطابق اساسنامه بانک تجارت، کدامیک از افراد زیر می تواند اعضا را برای جلسات هیئت مدیره دعوت نماید؟

۱) رییس هیئت مدیره ۲) نائب رییس

۳) ۲ نفر از اعضای هیئت مدیره ٤) همه موارد

۱۳- کدام یک از افراد زیر از اعضای هیئت عامل بانک تجارت نمی باشد؟

۱) مدیر عامل بانک ۲) قائم مقام مدیر عامل

۳) معاونین مدیر عامل ٤) رییس کمیته حسابرسی

IRANARZE.IR فروشگاه کالاهای دانلودی

❖ فصل هفتم: سوالات عمومی آزمون استخدامی بانک تجارت ۱۴۰۰

➢ زبان انگلیسی عمومی

1- The elephants trunk is very strong and …. allowing an elephant to pick a tiny flower or lift a heavy log.

1) resistible 2) flexible 3) available 4) sensible

☑ **پاسخ سایت ایران عرضه: گزینه ۲** ⇦ در اینجا خرطوم فیل باید انعطاف پذیر یا flexible باشد تا هم قادر به برداشتن یک گل کوچک و ظریف و هم قادر به برداشتن یک جسم سنگین و بزرگ باشد

خرطوم فیل خیلی قوی است و آنقدر …… است که فیل را قادر می سازد یک گل ریز یا یک تنه درخت سنگین را بلند کند.

۱) قابل مقاومت ۲) انعطاف پذیر ۳) موجود ٤) حساس

2- The researchers took some numbers out of a box and …. selected a number of students and teachers for the interview.

1) intrinsically 2) mutually 3) potentially 4) randomly

☑ **پاسخ سایت ایران عرضه: گزینه ٤** ⇦ (در اینجا محققان بدون اینکه به داخل جعبه نگاه کنند تعدادی از دانش آموزان و معلمان را انتخاب کردند و بنابراین قیدی که در اینجا باید استفاده شود randomly یا «به صورت تصادفی» است چون انتخاب آنها به صورت تصادفی انجام شده است)

۲- محققان چندین عدد را از جعبه بیرون آوردند و …….. تعدادی از دانش آموزان و معلمان را برای مصاحبه انتخاب کردند.

۱) به صورت ذاتی ۲) به صورت متقابل

۳) به صورت بالقوه ٤) به صورت تصادفی

3- The geography of northern Russia…. greatly with that of the south.

1) evolves 2) contrasts 3) rotates 4) orients

Part B: Reading Comprehension:

Directions: Read the following passage and select the choice (1),(2),)3). Or (4) that best answers each question. Then mark your answer on your answer sheet.

London is a famous and historic city. It is the capital o777f England in the United Kingdom The city is quite popular for international tourism because London is home to one of the oldest standing monarchies in the western hemisphere. Helen and Nancy recently traveled to London. They were very excited for their tripe because this was their first journey overseas from Canada.

Among the popular sights that Helen and Nancy visited are Big Ben the London Eye and Buckingham Palace. Big Ben is one of London's most famous monuments It is a large cluck tower located at the northern end of Westminster Palace. The clock tower is 96 meters tall Unfortunately, Helen and Nancy were only able to view the tower from the outside. They learned that the towers interior is undergoing renovations until 2022.

Fortunately, The London Eye, the city's famous ferris wheel, was open to the public The London Eye is situated along the southern shores of the Thames River. This attraction stands 135 meters high. It is One If London's most well-known spots for gaining aerial views of the city. Each capsule of the Ferris wheel can hold up to 25 passengers. When their capsule stopped at the top of the ferris wheel the women took spectacular panoramic photographs of the beautiful city scape below.

4- why were Helen and Nancy Very exited for their tripe?

1) It was their first journey overseas

2) London is very far from Canada

3) London is quite popular for its monarchy

4) They had never traveled to the western hemisphere

5- How tall is the clock tower?

1) 202 meters 2) 135meters 3) 96 meters 4) 25 meters

6- The word They in paragraph 2 refers to……

1) renovations 2) monuments

3) Helen and Nancy 4) sights

7- The words spots in paragraph 3 is similar in meaning to ……

1) views 2) locations 3) buildings 4) attractions

8- The paragraph following the passage will most probably talk about

1) the ferris wheel

2) tourist attractions of London

3) photographs of the beautiful city scape

4) Helen and Nancy trip Buckingham Palace

➢ اطلاعات عمومی، دانش اجتماعی و قانون اساسی

۹- باتلاق (جازموریان) در کدام استان های زیر واقع است؟

۱) سیستان و بلوچستان و کرمان ۲) کرمان و یزد

۳) سیستان و بلوچستان و خراسان جنوبی ٤) مرکزی و اصفهان

۱۰- مجموعه بناهای (ارگ چالشتر) از جاذبه های گردشگری کدام استان است؟

۱) فارس ۲) خوزستان

۳)کهگیلویه و بویر احمد ٤) چهار محال بختیاری

۱۱-نخستین بانک در ایران که مرکز آن در هندوستان بود، کدام است؟

۱) بانک شاهنشاهی ۲) بانک جدید شرقی

۳) بانک ملی ٤) بانک عثمانی

۱۲- در کدام روش، بانک ها با پول مردم سرمایه گذاری کرده و سود را به نسبتی با مردم تقسیم می کنند؟

۱) مزارعه ۲) اجاره ۳) مضاربه ٤) مساقات

۱۳-تابلوی معروف (تخت جمشید) اثر کیست؟

۱) آشتیانی ۲) مصور لملکی ۳) کمال الملک ٤) بهزاد

۱٤- اگر بانک مرکزی برای مقید کردن نرخ ارز دخالت کند این عمل در اصطلاح چه سیستمی نامیده می شود؟

۱) ارز شناور ۲) شناوری کنترل شده

۳) شناوری آزاد ٤) تثبیت ارز

۱۵-کوچک ترین کشور از همسایه های ایران که با ما مرز زمینی دارد، کدام است؟

۱) ارمنستان ۲) آذربایجان ۳) بحرین ٤) ترکمنستان

۱٦-رئیس مجلس خبرگان در دوره های اول تا چهارم کدام شخصیت بود؟

۱) محمد رضا مهدوی کنی ۲) اکبر هاشمی رفسنجانی

۳) محمد یزدی ٤) علی مشکینی

۱۷-تنها غزوه ای که حضرت علی (ع) به واسطه جانشینی پیامبر اسلام (ص) در مدینه در آن شرکت نکرد کدام است؟

۱) احزاب ۲) تبوک ۳) احد ٤) بدر

۱۸- تنظیم بودجه سال ۱٤۰۰ کل کشور، به عهده کدام دستگاه است؟

۱) نهاد ریاست جمهوری ۲) بانک مرکزی

۳) سازمان برنامه و بودجه ٤) وزارت امور اقتصادی و دارایی

➢ فناوری اطلاعات و مهارت های هفتگانه ICDL

۱۹- کدام مورد در خصوص حافظه RAM، صحیح است؟

۱) برای نگهداری موقت داده ها و برنامه ها استفاده می شود

۲) بالاترین ظرفیت آن در حال حاضر،16GB است.

۳) فقط داده ها را میتوان در آن ذخیره کرد.

٤) غیر فرّار است

۲۰- کدام دستگاه زیر می تواند سیگنال های دیجیتال را به آنالوگ تبدیل کند؟

۱) ISDN ۲) DSL ۳) Modem ٤) HDSL

۲۱- در سیستم Windows اگر نرم افزاری که در حال کار با آن هستید، به حالت New Responding برود، کدام مورد زیر، مناسب ترین راه حل است؟

۱) نصب مجدد برنامه

۲) فشردن دکمه Power برای پنج ثانیه

۳) خاموش کردن سیستم از منوی Start

٤) بازگرفتن Task Manager و خاتمه دادن به اجرای برنامه

۲۲- کدام کلید زیر، یک تصویر از آنچه که بر روی نمایشگر شما در حال نمایش است را در حافظه Clipboard ذخیره می کند؟

۱) Scroll Lock ۲) Print Screen ۳) Insert ٤) Pause

۲۳- برای درج تصویر در یک سند Word 2016 از کدام سربرگ و گروه باید استفاده شود؟

۱) design → illustrations ۲) insert → illustration

۳) insert → media ٤) design → media

۲٤- در نرم افزار Word 2016 یکی از ابزاری هایی که به کار بر روی یک سند مشترک کمک می کند، کدام است؟

۱) Comments ۲) Index ۳) Online Video ٤) Mailing

۲۵- در نرم افزار Word 2016 ، کدام درخصوص نمودار درج شده در یک سند صحیح است؟

۱) باید حتما در یک Textbox قرار داده شود.

۲) نوع نمودار به تعداد صفحات سند وابسته است.

۳) نوع آن به صورت تصویر (Picture) برای چاپ سند مناسب تر است.

٤) چاپ آن به صورت رنگی، به نوع پرینتر و تنظیمات آن بستگی دارد.

۲٦- در نرم افزار Excel 2016 تابع قدر مطلق کدام است؟

۱) ABS(number1 , number2) ۲) ACOS(number1 , number2)

۳) ABS(number) ٤) ACOS(number)

شکل زیر، بخشی از یک کاربرگ را در نرم افزار Excel نشان می دهد،

۲۷-حاصل سلول D2، کدام است؟

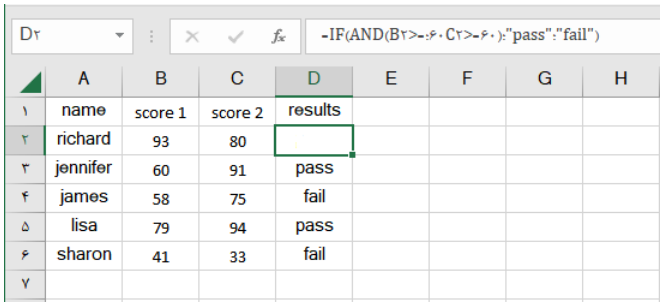

	A	B	C	D	E	F	G	H
۱	name	score 1	score 2	results				
۲	richard	93	80					
۳	jennifer	60	91	pass				
۴	james	58	75	fail				
۵	lisa	79	94	pass				
۶	sharon	41	33	fail				
۷								

۱) #NAME?

۲) Pass

۳) #Value!

٤) Fail

۲۸- اگر تابع AND را به QR تغییر بدهیم، تعداد Fail در ستون D کدام است؟

۱) ٤ ۲) ۳ ۳) ۲ ٤) ۱

۲۹- کدام مورد، برای چاپ اسلایدها در نرم افزار PowerPoint 2016 استفاده می شود؟

۱) Ctrl + P ۲) Shift + P

۳) Ctrl + S + P ۴) Shift + S + P

۳۰- در نرم افزار PowerPoint 2016، از کلید Escape برای کدام یک از اهداف زیر استفاده می شود؟

۱) افزودن Animation ۲) خاتمه به Slide Show

۳) تغییر Time ٤) نمایش Slide Sorter

۳۱- شکل زیر، کدام مورد در نرم افزار Access 2016 را نشان می دهد؟

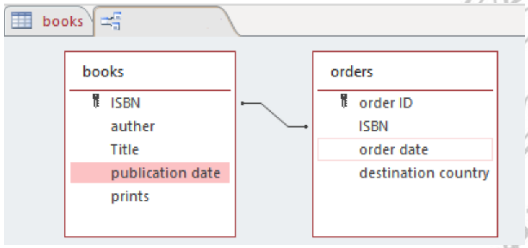

۱) Form

۲) Table

۳) Queries

٤) Relationship

۳۲- کدام مورد در خصوص یک دیواره آتش (Firewall)، صحیح است؟

۱) یک دستگاه برای تشخیص اثر انگشت افراد است

۲) یک دستگاه برای بالا بردن امنیت شبکه است

۳) یک دوربین مدار بسته برای شناسایی چهره افراد است

٤) یک دستگاه برای نظارت بر ورود و خروج کاربران است.

❖ فصل هشتم: سوالات عمومی آزمون استخدامی بانک تجارت آبان ۱۴۰۲

➢ معارف اسلامی

۱- گرایشی که عموم تلاش های انسان را تحت تاثیر خود قرار می دهد، میل به ..... است که پاسخ گوی آن..... است و نشانی بر..... خداوند می باشد؟

۱)کمالات بی نهایت – رستاخیز - عدل

۲) بقا و جاودانگی – حکیمانه بودن خلقت – حکمت

۳) کمالات بی نهایت –عادلانه بودن خلقت - عدل

٤) بقا و جاودانگی – رستاخیز – حکمت

☑ **پاسخ سایت ایران عرضه: گزینه ۲** ⇦ با دقت در وجود آدمی میبینیم که خداوند انسان را به گونه ای آفریده که گرایش به بقا و جاودانگی دارد و از نابودی گریزان است. اما دنیا و عمر محدود انسان ها پاسخگوی این گونه خواسته ها نیست. در این صورت باید گفت خداوند گرایش به زندگی جاوید را در وجود انسان قرار داده است و سپس او را در حالی که مشتاق حیات ابدی است، نابود میکند آیا این کار با حکمت خداوند سازگار است. بنابر حکمت الهی؛ با وجود میل به جاودانگی و بقا و همچنین خواستن همه کمالات و زیبایی ها در انسان با توجه به عمر محدود انسان و شرایط دنیا؛ وجود معاد ضرورت دارد.

➢ ادبیات و نگارش اداری

۲-در متن زیر چند غلط املایی وجود دارد؟

«خرگوش گفت از آن گه که هایل فراق در میان آمد و ریسمان لقا به انقطاع رسید، به گوشه ی عزلت افتاده ام و پیوسته جاذبه ی اشتیاق تو محرک خاطر بوده است، شتر از شنودن این سخن خیال آواز رود در سمع دل نشست، برخاست: سرودی از نشاط بر کشید و رقصی که به سماع خدای هیچ هادی نکرد، بدان کلمه که حادی طریق نجات او بود، درگرفت»

۱) یک ۲) دو ۳) سه ۴) چهار

☑ **پاسخ سایت ایران عرضه: گزینه ۳** ⇦ واژه هایی که در این متن دارای غلط املایی میباشند با معنی و املای صحیح آنها عبارتند از:

هایل (ترس): حایل (پرده و مانع) - هادی (رهبر): حادی (شتربان) - حادی (شتربان): هادی (معلم و راهنما)

۳-کدام عبارت نیاز به ویرایش دارد؟

۱) ابتکار شما را در انتشار این نشریه که می تواند در رشد تحقیقات، نقشی به سزا داشته باشد، تحسین می کنیم.

۲) ممکن است نویسنده ما را به موضوع متفاوت با موضوعات دیگر علاقه مند کند.

۳) دین مجموعه ی اصولی است که برگزیدنشان ضامن سعادت فرد و جامعه است.

٤) اطلاعیه ی مهمی از جانب رئیس جمهوری صادر و صحت تصمیمات گرفته شده تحقق یافت.

٤- در معرفی کدام اثر، اشتباه وجود دارد؟

۱) شلوارهای وصله دار: رسول پرویزی ۲) عقل سرخ: سهروردی

۳) دیداری با اهل قلم: دکتر زرین کوب ٤) سیراالملوک: خواجه نظام الملک

۵- مفهوم «سنگ را بر سبوی زدن» کدام است؟

۱) باید به آزمایش و امتحان بپردازی. ۲) سنگ سبو را می شکند.

۳) سنگ و سبو ضرب المثل است. ٤) سنگ دشمن کوزه گر است.

٦-کدام مورد، اشتباه نگارشی ندارد؟

۱) این سخن بس عظیم را این دانش آموزش فعال در کلاس درس برای ما بیان می کرد.

۲) سوابق گذشته ی این بزرگوار، زمینه های معرفی او را برای ما به نیکی آشکار می کند.

۳) حافظ، این چهره ی معروف عرفان، از شاعران مشهور و برجسته ی سرایش غزل است.

٤) این سخن بسیار زیبا را زبانا از فعالان حکیم و دانای روزگارمان شنیده ام.

۷- درکدام گزینه غلط املایی وجود دارد؟

۱)کوشش و اهتمام ۲) تشویق و ترغیب

۳) تباه کردن و تضییع ٤) بزرگ داشت و اعزاض

۸- معنای کدام واژه، درست نیست؟

۱) رعب: بیم ۲) رجم: ترجمه کردن

۳) شوخ چشم: گستاخ ٤) شرزه: خشمگین

۹- در بیت کدام واژه «ایهام» دارد؟

«چشم چپ خویشتن بر آرم تا روی نبیندت به جز راست»

۱) خویشتن ۲) چشم ۳) چپ ٤) راست

۱۰- ساخت دستوری کدام کلمه، با کلمه های دیگر تفاوت دارد؟

۱) داد و ستد ۲) زد و خورد ۳) سوز و گداز ٤) نشست و برخاست

۱۱- در عبارت «بوسهل را صفرا بجنبید و بانگ برداشت» (تهیه شده توسط ایران عرضه)صفرا بجنبیدن کنایه از چیست؟

۱) خشمگین شدن ۲) برخاستن

۳) به هم خوردن مزاج ٤) تکان خوردن

۱۲- معنی غماز چیست؟

۱) حیله گر ۲) سارق ۳) سخن چین ٤) اندوهگین

۱۳- کدام کلمه جمع نیست؟

۱) ارواح ۲) ارزاق ۳) اطراف ٤) ابزار

١٤-کدام شاعر پیش از دیگران می زیسته است؟

۱) ناصرخسرو ۲) حافظ ۳) سعدی ٤) انوری

۱۵- کدام گزینه در مورد حافظ شیرازی درست نمی باشد؟

۱) سراینده غزل های عرفانی است

۲) سعدی در سرودش غزل از او تقلید کرده است.

۳) بزرگترین شاعر قرن هشتم است.

٤) بسیاری از مضامین قرآنی را در شعرش به کار برده است.

١٦-معنی واژه میغ در بیت زیر چیست؟

«ریش بر می کند و می گفت ای دریغ کآفتاب نعمتم شد زیر میغ»

۱) خورشید ۲) رنگین کمان ۳) سایه ٤) ابرسیاه

۱۷-کدام مورد از آثار مولانا جلال الدین بلخی نیست؟

۱) مجالس سبعه ۲) مقالات شمس

۳) مثنوی معنوی ۴) فیه ما فیه

۱۸- صائب تبریزی پیرو کدام سبک شعر است؟

۱) خراسانی ۲) عراقی ۳) هندی ٤) بازگشت

۱۹- کدام گزینه از نظر نگارش درست است؟

۱) همچنان که ۲) همنشین ۳) چندانکه ٤) چه طور

۲۰-علائم نگارشی در کدام عبارت نادرست است؟

۱) برادرم، احمد امسال در دانشگاه قبول شد

۲) الهی! مرا به خود وا مگذار

۳) هرکه به قامت بهتر! به قیمت بهتر

٤) به به چه هوای خوبی!

۲۱- کدام علامت نگارشی برای نشان دادن «اسامی و عناوین و اصطلاحات علمی یا فنی» کاربرد دارد؟

۱)گیومه (« ») ۲)کروشه یا قلاب ([ ])

۳) پرانتز یا کمانک (( )) ٤) ستاره (*)

❖ فصل نهم: سوالات عمومی آزمون استخدامی بانک تجارت مهر ۱۴۰۳

➢ زبان انگلیسی عمومی

Encryption is a method of converting data into an unreadable format to prevent unauthorized access. There are two main types of encryption: symmetric encryption and asymmetric encryption.

Symmetric encryption uses the same key for both encryption and decryption. that both the sender and the receiver must keep the key secret. While and asymmetric encryption is generally faster and more efficient. it poses a risk if the key is compromised.

Asymmetric encryption, on the other hand, uses a pair of keys; a public key and a private key. The public key can be shared openly, while the private key must be kept secret by the owner.

This method enhances security because even if someone obtains the public key, they cannot decrypt messages without the private key.

In addition to these technologies, two-factor authentication requires users to enter an additional code sent to their mobile phone, in addition in their password. Users should also be cautious and avoid using public networks for financial transactions.

Regularly updating software and using strong passwords can further enhance security. By following these tips, users can enjoy online banking services with greater confidence.

رمزگذاری روشی برای تبدیل اطلاعات به یک فرمت غیرقابل خوانا جهت جلوگیری از دستیابی غیرمجاز است. دو نوع رمزگذاری وجود دارد: رمزگذاری متقارن و رمز گذاری نامتقارن.

در رمزگذاری متقارن از یک کلید برای رمزگذاری و رمزگشایی استفاده می شود که فرستنده و گیرنده باید کلید را پنهان نگه دارد. در حالی که رمزگذاری نامتقارن در حالت کلی سریع تر و بهینه تر است. اگر کلید در معرض خطر باشد، ریسک به وجود می آورد.

از طرف دیگر، رمزگذاری نامتقارن از یک جفت کلید استفاده می کند؛ کلید عمومی و کلید خصوصی. کلید عمومی را می توان به راحتی به اشتراک گذاشت، در حالی که کلید خصوصی باید توسط صاحب آن پنهان نگهداری شود.

این روش امنیت را افزایش می دهد زیرا حتی اگر یک شخص کلید عمومی را به دست آورد، نمی تواند بدون کلید خصوصی پیام ها را رمزگشایی کند.

علاوه بر این فناوری ها، در تایید هویت دو عاملی نیاز است که کاربران علاوه بر رمزعبور خود، یک کد اضافی که به گوشی همراهشان ارسال می شود را وارد کنند. کاربران باید محتاط بوده و از شبکه های عمومی برای تراکنش های مالی استفاده نکنند.

با بروزرسانی مرتب نرم افزار و استفاده از رمزعبور قوی می توان امنیت را افزایش داد. با پیروی از این نکات، کاربران می توانند از خدمات بانکداری آنلاین با اعتماد بیشتری لذت ببرند.

1- Which security technology is commonly used in online banking?

1) Encryption
2) Sending emails
3) Phone calls
4) Physical tokens

۱- کدام فناوری امنیت در بانکداری آنلاین به طور رایج استفاده می شود؟

۱) رمزگذاری
۲) ارسال ایمیل ها
۳) تماس های تلفنی
۴) توکن های فیزیکی

☑ **پاسخ سایت ایران عرضه: گزینه ۱** ⇦ با توجه به توضیحات متن، " با پیروی از این نکات، کاربران می توانند از خدمات بانکداری آنلاین با اعتماد بیشتری لذت ببرند" که نکاتی در مورد رمزگذاری بیان می کند، گزینه ۱ بهترین پاسخ می باشد.

2- According to the text, which key(s) are shared in asymmetric encryption?

1) Public Key
2) Public Key and private key
3) private key
4) Secret Key

۲- با توجه به متن، در رمزگذاری نامتقارن کدام یک از کلید ها به اشتراک گذاشته می شوند؟

۱) کلید عمومی
۲) کلید عمومی و کلید خصوصی
۳) کلید خصوصی
٤) کلید پنهان

☑ **پاسخ سایت ایران عرضه: گزینه ۲** ⇦ با توجه به توضیحات متن، "رمزگذاری نامتقارن از یک جفت کلید استفاده می کند؛ کلید عمومی و کلید خصوصی" گزینه ۲ بهترین پاسخ می باشد.

3- What is a primary advantage of asymmetric encryption over symmetric encryption?

1) It allows for faster processing of data.

2) It requires fewer resources to implement.

3) It provides enhanced security through separate keys

4) It uses only one key for both encryption and decryption.

4- What does two-factor authentication require from users?

1) A secret question
2) A fingerprint scan

3) Only one password

4) An additional code sent to their mobile phone

اطلاعات و هوش محیطی

۵- سیستم های اطلاعات GIS چه کاربردی دارد؟

۱) تجزیه و تحلیل داده های مالی
۲) مدیریت و تحلیل داده های مکانی و جغرافیایی
۳) طراحی وب سایت ها
۴) ذخیره سازی داده های متنی

۶- کدام یک از موارد زیر جزو چالش های مدیریت داده های محیطی نیست؟

۱) امنیت داده ها
۲) هزینه های بالای جمع آوری داده ها
۳) عدم وجود فناوری مناسب
۴) افزایش دسترسی به اطلاعات

۷- مقررات اطلاعات محیطی (EIR) چه هدفی را دنبال می کند؟

۱) محدود کردن دسترسی به اطلاعات زیست محیطی
۲) فراهم کردن دسترسی عمومی به اطلاعات محیطی
۳) افزایش هزینه های دسترسی به اطلاعات
۴) حفظ حریم خصوصی افراد

۸- کدام یک از موارد زیر نمونه ای از فناوری های نوین در جمع آوری اطلاعات محیطی است؟

۱) اینترنت اشیا
۲) آنتن های ثابت
۳) دوربین های آنالوگ
۴) آنتن های آنالوگ

۹- ..... یک بستر نرم افزاری است که برای ارتباط بین سیستم های مختلف و تبادل اطلاعات استفاده می شود و می تواند به عنوان یک واسط بین دستگاه های IOT و سرور های ابری عمل کند؟

۱) ERI
۲) ESB
۳) ISP
۴) IOS

۱۰- تحلیل داده های زیست محیطی معمولا برای چه هدفی انجام می شود؟

۱) پیش بینی تغییرات آب و هوایی
۲) افزایش فروش محصولات کشاورزی
۳) طراحی وب سایت ها
۴) کاهش هزینه ها در صنایع تولیدی

۱۱- کدام یک از فناوری های زیر به جمع آوری داده های محیطی از طریق حسگر ها کمک می کند؟

۱) حسگر های حرارتی
۲) هوش مصنوعی
۳) اتوماسیون صنعتی
۴) نرم افزار های طراحی CAD

۱۲- مدل های یادگیری ماشین در هوش محیطی معمولا برای چه هدفی استفاده می شود؟

۱) تحلیل روش های اقتصادی
۲) شبیه سازی و پیش بینی نتایج محیطی
۳) برنامه ریزی شهری
۴) طراحی محصولات جدید

۱۳- برای تحلیل داده های محیطی از چه تکنیک هایی استفاده می شود؟

۱) نظریه های جامعه شناسی ۲) روش های آماری و تحلیل فضایی

۳) مدل سازی مالی ۴) طراحی گرافیکی

۱۴- کدام یک از گزینه های زیر به عنوان منبع اصلی داده های محیطی شناخته می شود؟

۱) شبکه های اجتماعی ۲) ماهواره ها

۳) مقالات علمی ۴) کتاب های درسی

مهارت های ICDL

۱۵- کدام یک از وسایل زیر از نوع خروجی است؟

۱) میکروفن ۲) تاچ پد ۳) وب کم ٤) پلاتر

۱٦- از کدام نوار می توان برای مرور محتوای پنجره استفاده کرد؟

۱) نوار عنوان - title bat ۲) نوار پیمایش – scroll bar

۳) نوار ابزار - tool bar ۴) نوار وضعیت - status bar

۱۷- کدام روش مرتب سازی ایکون ها را بر اساس پسوند (نوع فایل) مرتب می کند؟

۱) type ۲) size ۳) name ۴) data

۱۸- در برنامه word برای انتخاب یک پاراگراف کدام کلید میانبر استفاده می شود؟

۱) کلیک (click) ۲) دو کلیک (two click)

۳) دابل کلیک (double click) ۴) تریپل کلیک (triple click)

۱۹- در برنامه اکسل با فعال کردن گزینه Fill در پنجره Format Cell چه عملی انجام میشود؟

۱) محتویات سلول انتخابی تا زمانی که سلول پر شود تکرار می شود

۲) محتویات داخل سلول فشرده سازی می شود

۳) محتویات داخل سلول تراز بندی می شود.

٤) زمینه سلول تغیر رنگ داده می شود

۲۰- کلیدهای میانبر معادل فرمان undo کدامند؟

۱) ctrl + z ۲) ctrl + r ۳) ctrl + u ۴) ctrl + y

۲۱- برنامه اکسس (access) محصول شرکت مایکروسافت چه نوع برنامه ای است؟

۱) بانک اطلاعاتی ۲) سیستم مدیریت پایگاه داده

۳) ارائه مطلب ٤) پردازش داده و متن

۲۲- در برنامه پاورپوینت برای نمایش اسلایدها از اسلاید نخست، از کدام گزینه استفاده می شود؟

۱) F3 ۲) F5 ۳) shift + F5 ۴) ctrl + F5

۲۳- برای ارسال ایمیل به چند دریافت کننده به طوری که سایر دریافت کنندگان از وجود هم مطلع نشوند ، باید آدرس آنها را در کدام قسمت نوشت؟

۱) TO ۲) CC ۳) BCC ۴) SUBJECT

۲۴- پوشه outbox شامل لیست چه نامه هایی است؟

۱) نامه های دریافت شده ۲) نامه های ارسال شده

۳) نامه های حذف شده ٤) نامه های آماده شده

هوش

۲۵- یک دایره درون یک نیم دایره محاط شده است مساحت دایره چه کسری از مساحت کل شکل است؟

۱) یک هشتم

۲) یک دوم

۳) یک چهارم

٤) یک پنجم

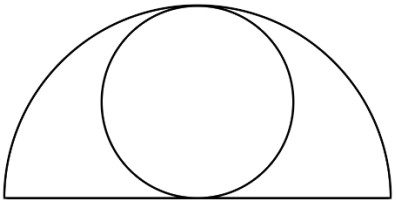

۲٦- اگر با تعدادی مکعب به ابعاد واحد مکعب بزرگتری به ضلع ۵ واحدی بسازیم و سطح مکعب بزرگ را رنگ کنیم چه تعداد مکعب رنگ نمی شوند؟

۱) ۵ ۲) ۸ ۳) ۲۷ ٤) ٤۲

۲۷- یک کارمند بانک ساعتی ۲۵۰ تومان دستمزد میگیرد تا روزانه ۸ ساعت کار کند. به ازای هر ساعت اضافه کار ۵۰ درصد مزد بیشتری دریافت می کند. اگر یک روز ۲۷۵۰ تومان دریافت کرده باشد،چند ساعت کار کرده است؟

۱) ۲ ساعت ۲) ۵ ساعت ۳) ۷ ساعت ٤) ۱۰ ساعت

۲۸- اگر $\sqrt{5\sqrt{5\sqrt{5}}} = 125^x$ مقدار x چقدر است؟

۱) $\frac{1}{8}$ ۲) $\frac{3}{8}$ ۳) $\frac{7}{24}$ ۴) $\frac{6}{17}$

۲۹- تعداد قطر های یک ۵ ضلعی محدب چند تاست؟

۱) ۵ ۲) ۶ ۳) ۱۰ ۴) ۱۵

۳۰- بین اعداد زیر از چپ به راست ارتباط خاصی برقرار است به جای علامت سوال کدام عدد می تواند قرار بگیرد؟

۱۵،....، ۱۹، ۲۷، ۳۲، ۳۳؟

۱) ۱۴ ۲) ۱۱ ۳) ۱۲ ۴) ۱۳

۳۱- برای خرید کالایی دوبار تخفیف متوالی یک بار ۲۰ درصد، یک بار ۱۰ درصد داده شده است. در مجموع چند درصد تخفیف داده شده است؟

۱) ۳۲ ۲) ۳۰ ۳) ۴۲ ۴) ۲۸

راهنمایی برای پاسخگویی به سوال های ۳۲ تا ۳۴ لازم است موقعیتی را که در هر سوال مطرح شده مورد تجزیه و تحلیل قرار دهید و سپس گزینه ای را که فکر می کنید پاسخ مناسب برای آن است انتخاب کنید هر سوالی را با دقت بخوانید و با توجه به واقعیت های مطرح شده در هر سوال و نتایجی که بیان شده و بیان نشده ولی قابل استنتاج است پاسخی را که صحیح تر به نظر می رسد انتخاب و در پاسخنامه علامت بزنید.

۳۲- بازیگران باید با کارگردان، فیلمنامه نویس، نورپرداز، فیلمبردار و طراح صحنه و لباس فیلم برای قطعی کردن گریم فیلم در زمینه های مختلف مثل مو، چهره و لباس، در مقاطع مختلف فیلم، جلسات متعدد داشته باشند. بازیگران باید یک به یک گریم های مختلفی رویشان تست شود تا بالاخره یکی از آنها نهایی شود. گاهی اوقات اتفاق افتاده که حضور یک بازیگر در فیلم قطعی است، اما زمانی که گریم آن نقش روی بازیگر مورد نظر اجرا میشود، مورد قبول قرار نمیگیرد و انتخابش منتفی میشود. مثلا در فیلم لارنس عربستان، ابتدا قرار بود مارلون براندو نقش لارنس را بازی کند که پس از تست گریم و عدم رضایت کارگردان این فیلم، دیوید لین، .....

۱) همه عوامل فیلم به نوعی مقصر قلمداد شدند.

۲) موجبات دلخوری هنرپیشه اصلی فراهم آمد.

۳) کارگردان مجبور به بازنگری در فیلنامه شد.

۴) نقش به هنرپیشه دیگری داده شد

۳۳- اسید لاکتیک موجود در ماست، روی عصب پاراسمپاتیک اثر میگذارد. از آنجا که این عصب، کند کننده است، حالت لختی در بدن به وجود میآورد و چون این خاصیت در ماهی نیز تا حدّی وجود دارد، بهتر است با هم مصرف نشوند

درستی نتیجه گیری متن، بر کدام فرض زیر استوار است؟

۱) افرادی که ماست و ماهی را با هم مصرف میکنند، به واقع سست و تنبل میشوند

۲) اعتقاد به نتیجه حاصله از اثر اسید لاکتیک بر عصب پاراسمپاتیک، کاملا درست است

۳) برخی مردم بر این باورند که بعضی از یافتههای علمی، با تجربه شخصی آنها همخوانی ندارد

۴) وقتی انسان کند و بیحال میشود، انگیزه خود برای عمل را از دست میدهد

۳۵- در شکل مقابل چند مربع قابل شمارش وجود داره؟

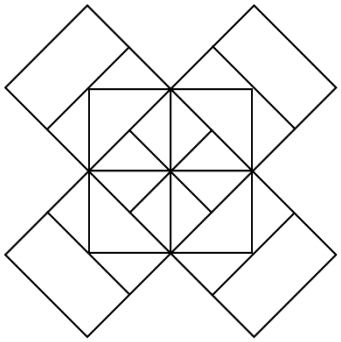

۱) ۱۴

۲) ۱۸

۳) ۱۶

۴) ۱۲

معارف اسلامی

۳۶- عبارت قرآنی (ما ذلک علی الله بعزیز) به کدام صفت اللهی اشاره دارد؟

۱) علم اللهی ۲) حکمت اللهی ۳) رحمت اللهی ۴) قدرت اللهی

۳۷- کدام نگرش بر تمام آیات قرآن سایه افکنده است؟

۱) نگرش انسانی ۲) نگرش الهی ۳) نگرش توحیدی ۴) نگرش ماورایی

۳۸- کدام دسته از صفات خداوند صرفا با دخالت امری ثالث به اثبات می رسد؟

۱) ذات ۲) فعل ۳) سلبیه ۴) ثبوتیه

۳۹- کدام گزینه از جمله حوادث مرحله اول قیامت نیست؟

۱) تغییر در ساختار زمین ۲) مرگ اهل آسمان و زمین

۳) شنیده شدن صدای مهیب ۴) دادن نامه اعمال

۴۰- لازمه ایمان به خدا از دیدگاه پیامبران چیست؟

۱) ایمان به کتب آسمانی ۲) انجام کارهای نیک

۳) ایمان به آخرت ۴) انجام واجبات دینی

۴۱- عامل درونی دعوت به گناه و عامل بیرونی وسوسه و فریب به ترتیب چه نام دارد؟

۱) نفس اماره – نفس لوامه ۲) شیطان – نفس اماره

۳) نفس اماره – جن و انس ۴) نفس اماره – شیطان

۴۲- تلقین میت به هنگام دفن به کدام ویژگی برزخ اشاره دارد؟

۱) وجود شعور و آگاهی ۲) ارتباط متوفی با خانواده

۳) دریافت پاداش خیرات بازماندگان ۴) گفتگوی از کردار و اعمال متوفی

۴۳- نماز در همه ادیان ..... بوده است

۱) مستحب ۲) واجب

۳) دارای جایگاه واحد ۴) مورد توجه

۴۴- اعجاز لفظی در قرآن مربوط مقوله ..... و اعجاز معنوی آن مربوط به مقوله .....

۱) دنیوی – آخری ۲) زیبایی – علمی

۳) علمی – زیبایی ۴) مادی – آخروی

۴۵- کدام سوره به قلب قرآن معروف است؟

۱) بقره ۲) توحید ۳) یاسین ۴) تکویر

ادبیات و نگارش اداری

٤٦- در بیت زیر کدام یک از آرایه های ادبی زیر به کاررفته است؟

بهرام که گور می گرفتی همه عمر دیدی که چگونه گور بهرام گرفت

۱) اغراق ۲) جناس ۳) تشبیه ٤) واج آرایی

٤٧- قالب شعری شاهنامه فردوسی چیست؟

۱) قطعه ۲) قصیده ۳) مثنوی ٤) غزل

٤٨- بیت زیر با کدام یک از مفاهیم زیر هم خوانی دارد؟

بدو گفت خندان که نام تو چیست تن بی سرت را که خواهد گریست

۱) یگانه پرستی ۲) میهن دوستی ۳) تهدید به مرگ ٤) تواضع و خاکساری

٤٩- کدام گزینه در مورد کتاب های بوستان و گلستان سعدی درست است؟

۱) هر دو نثر هستند ۲) اولی نظم و دومی نثر

۳) اولی نثر و دومی نظم ٤) اولی نظم و دومی آمیخته ای از نظم و نثر

۵۰- کدام گزینه اضافه تشبیهی است؟

۱) اکسیر عشق ۲) یمن قدم ۳) کوس رحلت ٤) معتکف دیر

۵۱- نقش ضمیر (ت) در عبارت (جهان با این فراخی تنگت آیو) چیست؟

۱) مضاف الیه ۲) متمم ۳) نهاد ٤) مفعول

۵۲- در کدام کلمه یکی از دو حرف نزدیک به هم ، حذف شده است؟

۱) همگان ۲) شب گیر ۳) یکسان ٤) یگانه

۵۳- مفهوم مصراع «اگر پای در دامن آری چو کوه» در کدام گزینه آمده است؟

۱) سخنوری ۲) گوشه گیری ۳) ثابت قدمی ٤) استواری

٥٤- معنی (نگردد) در بیت زیر چیست؟

دل همچو سنگت ای دوست به آب چشم سعدی عجب است اگر نگردد که بگردد آسیابی

۱) نرم نشود ۲) آرام نگیرد ۳) آشفته نشود ٤) نگران نشود

۵۵- با توجه به معنی، املا کدام واژه صحیح است؟

۱) تهجد: شب بیداری ۲) فرتوط: فرسوده

۳) عطاب:ملامت ٤) عزیمت:لغزش

٥٦- اسم مصدر (می درخشد) چیست؟

۱) درخشن ۲) درخشان ۳) درخشندگی ٤) درخش

۵۷- کدام اثر از آثار محمد ابراهیم باستان پاریزی نیست؟

۱) از پاریز تا پاریس ۲) پیغمبر دزدان ۳) سفر سوختن ٤) گرگ پالان دیده

۵۸- نویسنده داستان (زن زیادی) کیست؟

۱) جالل آل احمد ۲) صادق هدایت

۳)محمدعلی جمالزاده ٤) محمد ابراهیم باستان پاریزی

۵۹- کدام یک از اختیارات زبانی نیست؟

۱) کوتاه تلفظ کردن یک مصوت بلند ۲) بلند تلفظ کردن یک مصوت کوتاه

۳) حذف حمزه ٤) جابه جاکردن هجاهای کوتاه و بلند در وزن و مصراع

٦٠- در بیت زیر کدام ارایه دیده می شود؟

«آن شاخه های نارنج اندر میان ابر چون پاره های اخگر اندر میان دود»

۱) ایهام ۲) سجع ۳) لف و نشر ٤) تشبیه

٦١- ..... در فرهنگ های فارسی معادل مطلع یا سرآغاز ، طلیعه ، درآمد و زمینه سازی آمده است

۱) مقدمه ۲) عنوان ۳) پیام ٤) نتیجه

٦٢- کدام یک از نامه های زیر از نظر کاربرد با سایرین متفاوت میباشد؟

۱) نامه های وارده ۲) نامه های رسیده

۳) نامه های واصله ٤) نامه های صادره

٦٣- بهتر است از واژه های (بازگشت) و (در پاسخ) چه زمانی استفاده شود؟

۱) در مقدمه نامه ۲) در عنوان نامه ۳) در پیام نامه ٤) در نتیجه نامه